الأستاذ: ...	مادة التربية التكنولوجية
ميساء العش	

النشاط الأول: أمرين التقديم والربط بما يناسبا

تعتزم مؤسسة صناعية تطوير الفوانيس الكهربائية من العادية إلى الاقتصادية للتطوّرة لمدة اقتصاد الطاقة الكهربائية.

1) للتعبير عن الحاجة لهذا المنتج استعين بأداة .....

.....

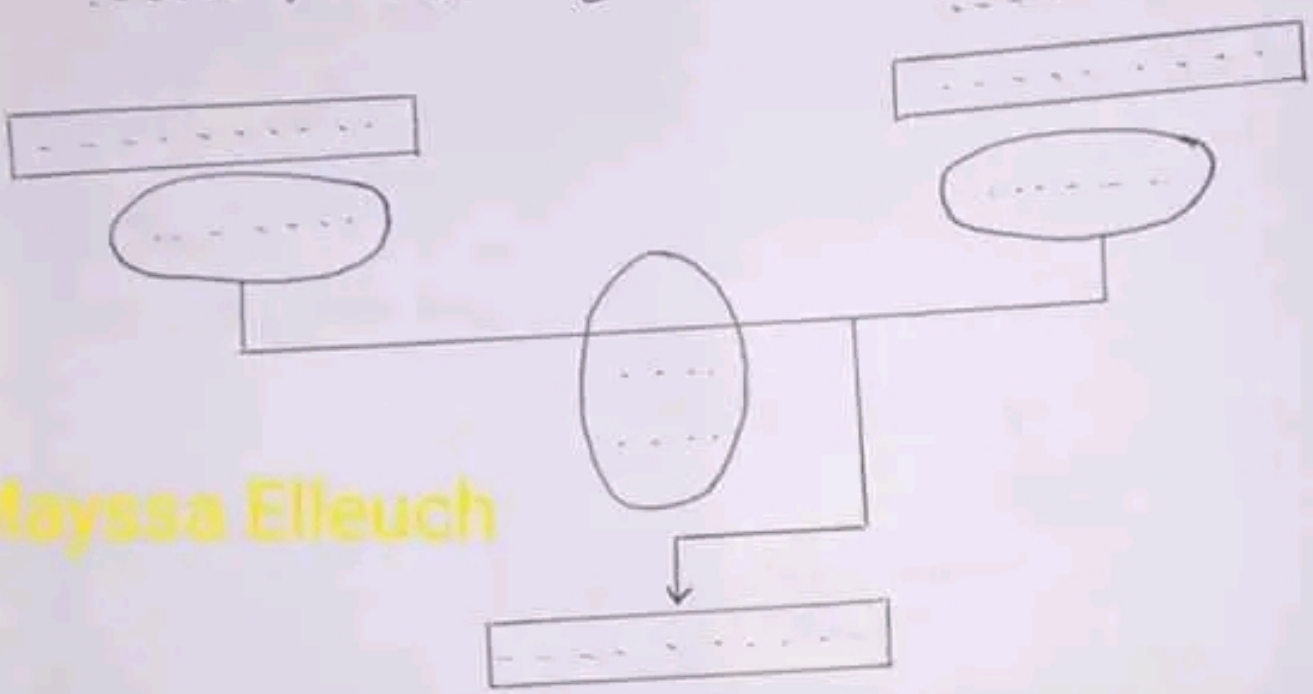

Maryssa Elleuch

.....

.....

2) أعبّر عن الحاجة إلى المصباح الاقتصادي

.....

.....

3) ما هو اسم المكوّن المستعمل للتحكم بمصباح المنزل ؟

.....

رمزه : .....

4) العنصر الذي تحتويه كهربائية : 2SOV 10A

للحالويا التعرّف عليها

www.najahni.tn

250V
10A

5) ماهي نوعية مصدر التغذية للمصباح لمولد الكهربائي ؟

* اذكر نوعية التغذية التي تولدها مصادر التغذية الكهربائية التالية :

مغشث كهربائي	عمود جاف	بطارية	مولد كهربائي لدراجة هوائية
تغذية	تغذية	تغذية	تغذية
.....	.....	.....	.....

الشرح الثاني :

Maysaa Elleuch

دارة كهربائية لجرس

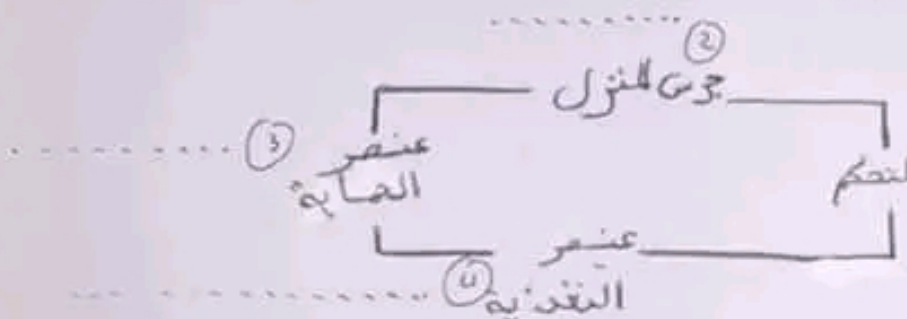

4) أرسم داخل الشبكة رسما بيانيا سفتنا لهذه الدارة مع تعويض الجرس بالمصباح واذكر اسم كل عنصر ①، ②، ③ و ④ وتعويض ما يلزم

5) هذا التيار الكهربائي له قطبين لماذا سمي بهذا الشكل، ماهما

.....

6) لحماية هذه الدارة تم تركيب ماذا في هذه الدارة ؟
لماذا ؟

.....

الشبكة =

www.najahni.tn

	فرض تأليفي عدد 1 مادة التربية التكنولوجية	2 أساسي الأستاذة: سيماء العلي

التمرين الأول: أمرن التقديم والحل بما يناسبا.

تعتزم مؤسسة صناعية تطوير الفوانيس الكهربائية من العاينة إلى الاقتصادية للتطوّرة لعدد افتصاد الطاقة الكهربائية.

1) للتعبير عن الحاجة لهذا المنتج استعين بأداة التعبير عن الحاجة.

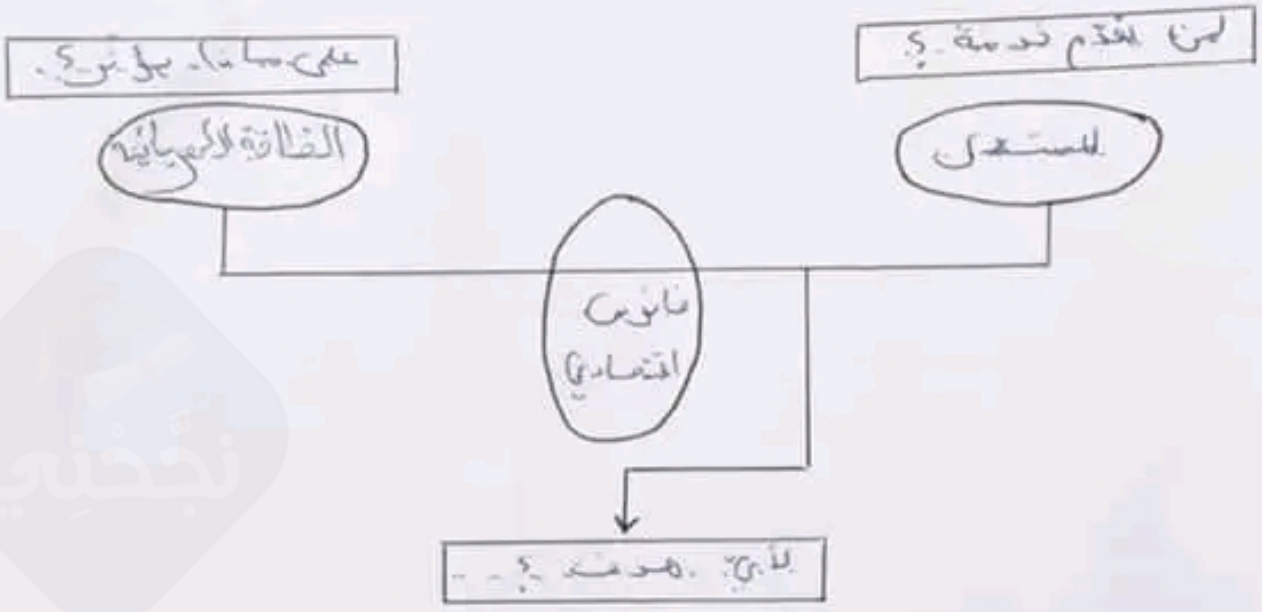

تمكين المستهلك من الاقتصاد في الطاقة.

2) أعبر عن الحاجة إلى المصباح الاقتصادي:
يمكن القانون الاقتصادي المستهلك من الاقتصاد في الطاقة.

3) ما هو اسم المكون المستعمل للتحكم بمصباح المنزل؟
القاطعة.

رمزه:

4) لعنصر التحكم خاصيات كهربائية: 250V, 10A
المطلوب التعرف عليها.

www.najahni.tn

250V : فارق جهد الاستعمال - ولا يجب تجاوزه ...
10A : الشدة القصوى للتيار الكهربائي التي يتحملها عنصر التحكم

5) ما هي نوعية مصدر التغذية للمصباح لمنزلي الكهربائي ؟
متردد ...

* اذكر نوعية التغذية التي تولدها مصادر التغذية الكهربائية التالية :

منشب كهربائي	عمود جاف	بطارية	مولد كهربائي لدراجة هوائية
تغذية متردد	تغذية مستمرة	تغذية مستمرة	تغذية متردد

التمرين الثاني :

دارة كهربائية لجرس

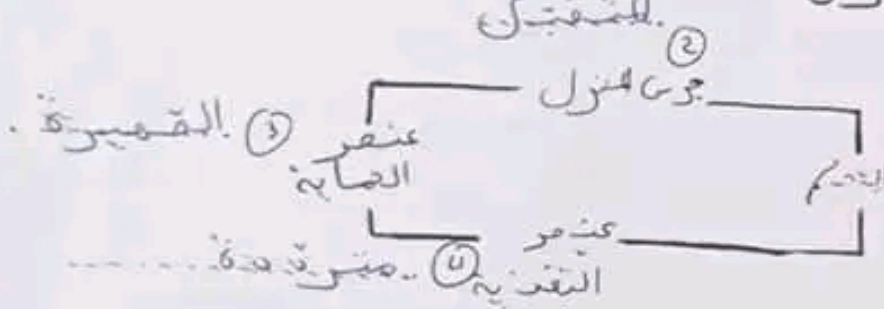

4) أرسم داخل الشبكة رسما بيانيا منقنا لهذه الدارة مع تعويض الجرس بالمصباح.
واذكر اسم كل عنصر ① ، ② ، ③ و ④

5) هذا التيار الكهربائي له قطبين لهما نفس الشكل، ماهما :
الطور والمحايد ...

6) لحماية هذه الدارة تم تركيب صانع أي هذه الدارة ؟ صهيرة ...
لحماية S حماية الدارة في حين
حدوث ارتفاع مفاجئ في شدة
التيار الكهربائي .

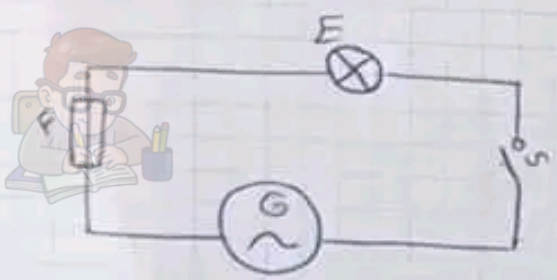

الشبكة =

www.najahni.tn